Évaluation Géographie Tous niveaux

Date :

Nom : Prénom : Classe :

Évaluation sur 20 points.

k. Avoir des repères dans le temps et dans l'espace

Signature des parents :

Appréciations :

	Insuffisant	Fragile	satisfaisant	Maîtrisé
	☐	☐	☐	☐
I) Je localise des grands repères (20 points)	☐	☐	☐	☐

1) Dans le monde (10 points)

☐☐☐☐ ☐☐ ☐☐☐ ☐☐

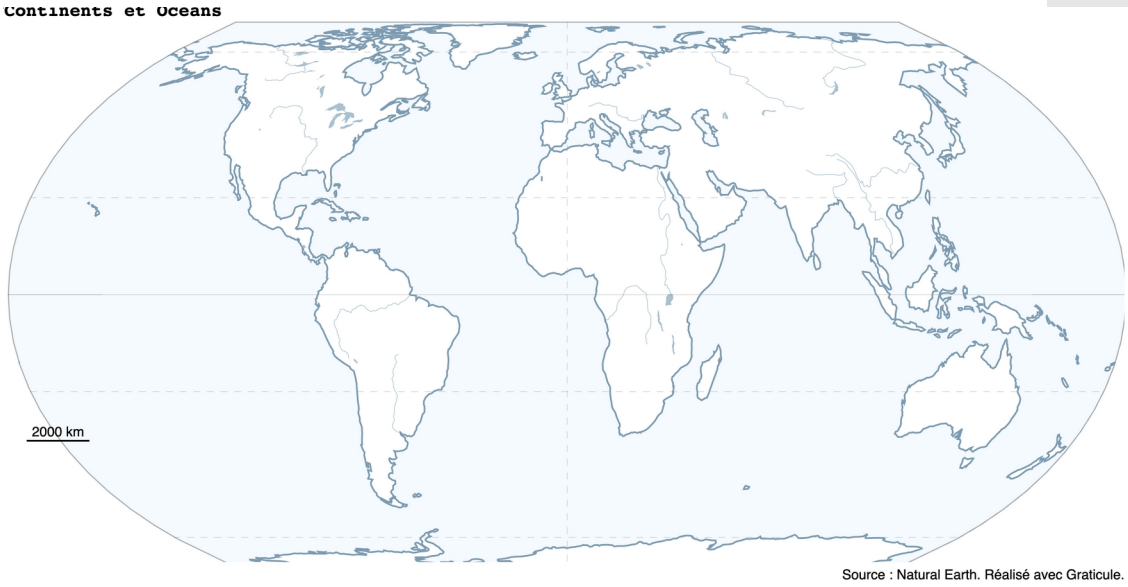

1) Tracer en rouge l'équateur.

2) Repasser en bleu et nommer au moins trois grands fleuves.

3) Tracer en vert le cercle polaire Arctique

4) Au stylographe bleu, situez l'océan Indien, l'océan Atlantique et l'océan Pacifique.

5) Nommez les continents au stylographe noir.

La France (10 points)

☐☐☐ ☐☐☐ ☐☐☐ ☐☐

1) Localisez la Manche, l'océan Atlantique, la mer Méditerranée en les nommant sur la carte.

2) Repasser en bleu les grands fleuves de France et nommez-les en bleu.

3) Coloriez les massif montagneux en marron et nommez-les en noir.

4) Repassez en noir les frontières terrestres de la France.

5) Donnez un titre à la carte :

_____

6) Nommez les pays

1 :_____

2 :_____

3 :_____

4 :_____

5 :_____

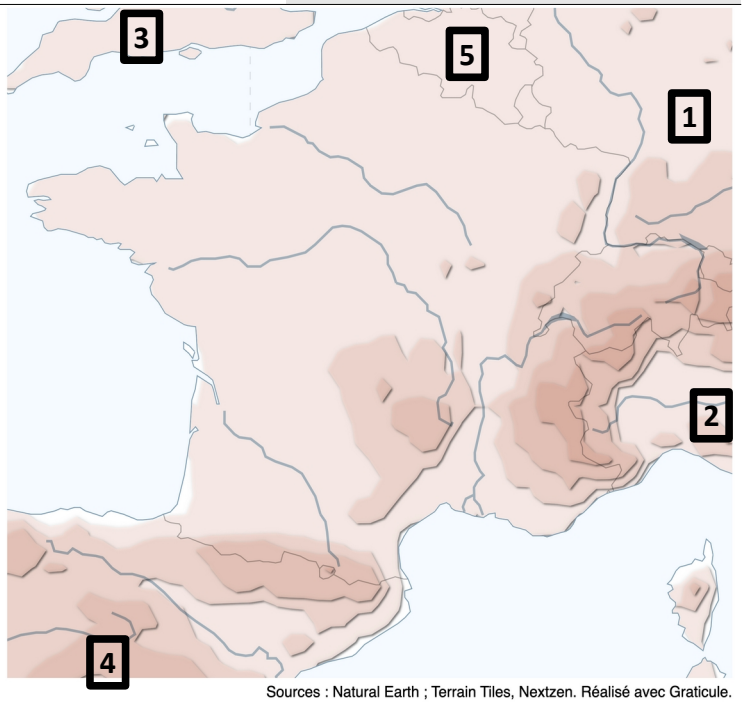

II) Je situe dans l'espace les connaissances (20 points)

□ □ □ □

1) Dans le monde (10 points)

□□□□ □□ □□□ □□

1) Situez la France la coloriant en orange.

2) Entourez au feutre rouge les trois pôles de puissance économique de la planète et nommez-les.

3) Situez les trois pays les plus peuplés en les nommant en noir et en les coloriant en rouge.

4) Situez la Russie en la nommant en noir.

5) Nommez deux autres pays émergents.

6) Situez Tokyo, New York, Lagos, Shanghai.

2) En France (10 points)

□□□□ □□ □□□ □□

1) Nommez les cinq départements d'Outre-mer sous leur carte et précisez en dessous la mer, l'océan ou le continent auxquels ils appartiennent.

2) Nommez-les pays limitrophes.

3) Délimitez les principales métropoles en rouge et Nommez-les.

4) tracez les principaux axes de communications

5) Délimitez en vert les grandes régions « Nouvelle Aquitaine » et « Hauts de France ».

6) Répondez aux questions :
- Dans quelle région se situe Bordeaux ?

- Qu'est-ce qu'une métropole ?
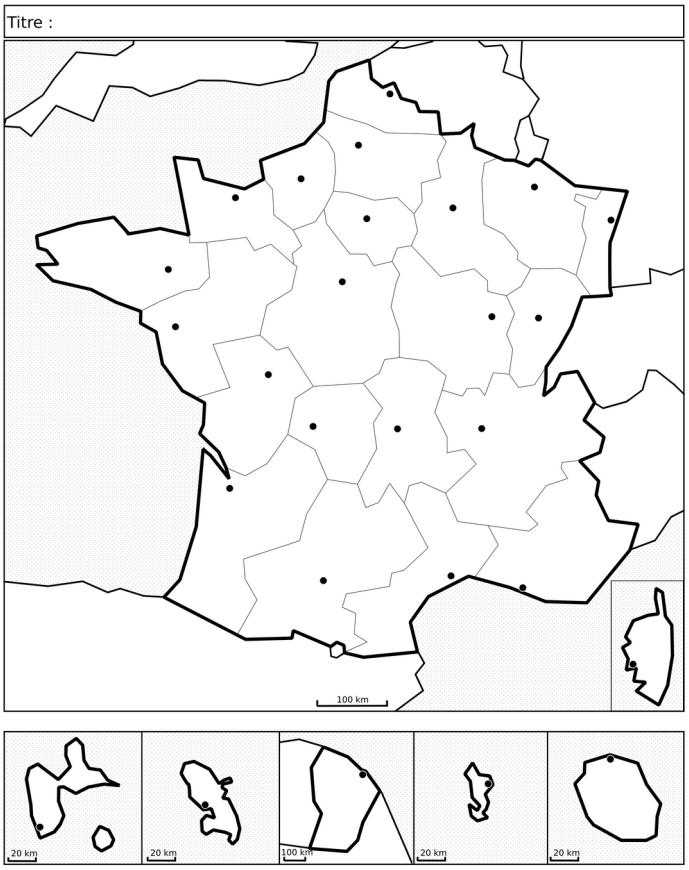
- Combien d'habitants compte Paris ?